GUIA TRABAJO MATEMÁTICA 5° BÁSICO

PROFESORA VIVIANA BURGOS HERNÁNDEZ

CONTINÚA PRACTICANDO LOS NÚMEROS HASTA 1.000

1. COMPLETA CON EL ANTECESOR Y EL SUCESOR.

Anterior		Posterior
	100	
	200	
	300	
	400	
	500	
	600	
	700	
	800	
	900	

2. ENCIERRA EN UN CÍRCULO LOS NÚMEROS ENTRE 500 Y 1.000

467	958	1.928	6.345	425
465	8.687	937	564	172
5.436	635	200	50	3.484
999	736	44	502	23
32.873	47.554	354	233	873

3. LEE LAS INSTRUCCIONES Y RESPONDE.

1. Escribe el nombre de los siguientes números:

- 100 _____
- 245 _____
- 507 _____
- 860 _____
- 702 _____
- 999 _____

2. Escribe en cifras:

Ciento uno	
Quinientos veinte	
Seiscientos doce	
Novecientos	
Ochocientos tres	
Cuatrocientos diez	

3. Continúa la serie hasta 150.

76 78 80 82 _____

_____

_____

_____

_____

_____

4. Ordena de mayor a menor.

357 – 845 – 298 – 500 – 740

4. COMPLETYA CADA SERIE NUMÉRICA CON 5 NUMEROS MÁS.

513 = _____

284 = _____

756 = _____

935 = _____

5. Completa con el signo > (mayor que) o con el signo < (menor que).

150 __ 180	343 __ 629	485 __ 237
752 __ 624	830 __ 803	920 __ 940
510 __ 520	856 __ 343	901 __ 910

6 ESCRIBE CON PALABRAS LOS SIGUIENTES NÚMEROS.

143	
37	
53	
129	
68	
231	
527	
483	
286	
325	
680	

7. CÁLCULO MENTAL

1+1	20+20
2+2	30+30
3+3	40+40
4+4	50+50
5+5	100+100
6+6	200+200
10+10	300+300

8. ORDENA LAS MANZANAS DESDE EL NÚMERO MENOR AL MAYOR, ANOTALOS EN LA LINEA DE ABAJO



_____

_____

9. PINTA LOS NÚMEROS MAYORES QUE 570

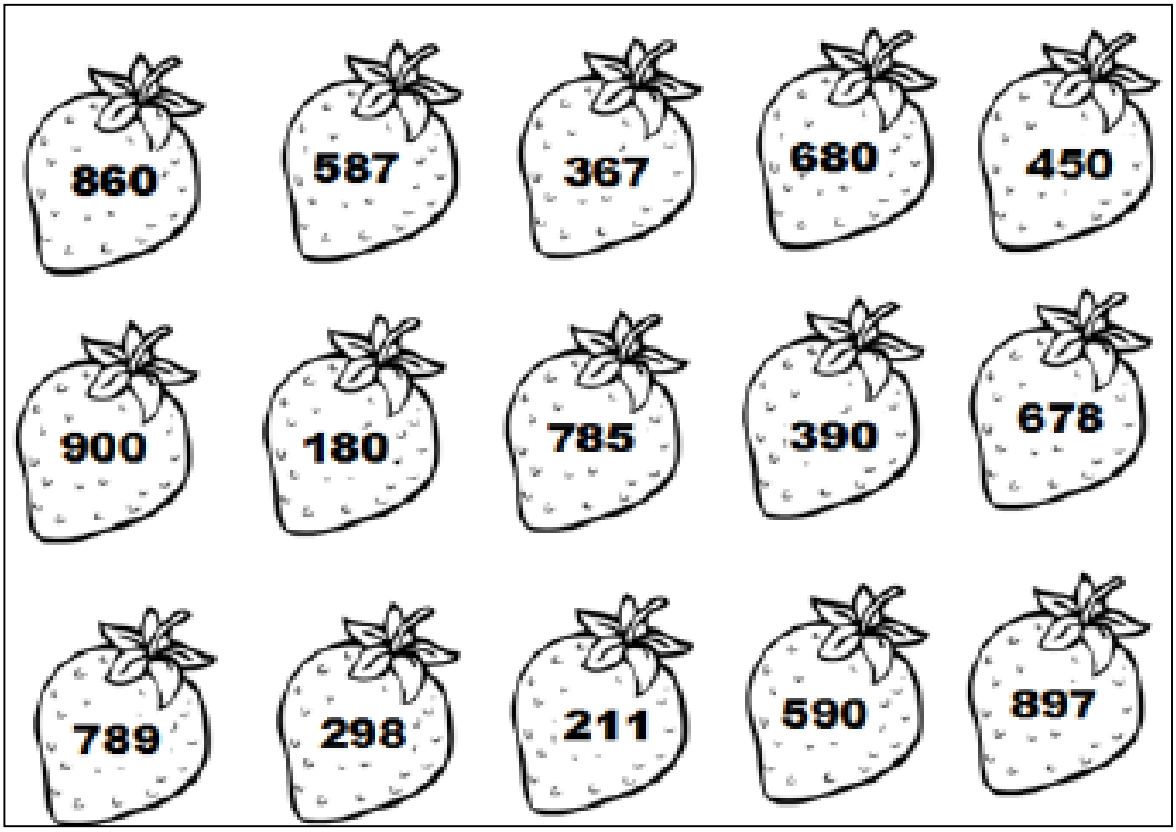

10. COMPARA CADA PAR DE NÚMEROS Y ESCRIBE MAYOR QUE O MENOR QUE, SEGÚN CORRESPONDA.

a. 597 es _____ 498

b. 936 es _____ 937

c. 285 es _____ 96

11. COMPLETA LAS SECUENCIAS NUMÉRICAS.

60	59	58	57	56	
50	100	150			
143	243	343			
327		329		331	
805		825	835		
	624	524	424		

12. LEE Y ESCRIBE LA CIFRA QUE CORRESONDE

Ciento cuarenta y cinco pesos	$
Seiscientos noventa y siete pesos	$
Quinientos ochenta pesos	$
Setecientos cuarenta y nueve pesos	$
Doscientos treinta y cinco pesos	$
Ochocientos setenta y un pesos	$
Ciento diez pesos	$
Trescientos cincuenta y dos pesos	$

13. VEAMOS TÚ PROGRESO, COMO VAS.

1 b. Hacia **adelante**, comenzando en el número 265.

265 , ____ , ____ , ____ , ____ ntos seis

c. Hacia **atrás**, comenzando en el número 939.

tos sesenta

939 , ____ , ____ , ____ , ____ os veintiséis

2. Escribe con palabras los siguientes números.

a. 793 ▸ _____

b. 204 ▸ _____

Conteo de 100 en 100 hasta el 1.000

3. Completa con los números en cada conteo de 100 en 100.

a. 384 , ____ , 584 , 684 , ____

b. 892 , ____ , 692 , ____ , ____

4. Completa el conteo de 100 en 100, según corresponda.

a. Hacia **atrás**, comenzando en el número 792.

792 , ____ , ____ , ____ , ____

14. ESCRIBE CUANTO DINERO HAY.

a.



Marca con una ✗ la respuesta correcta.

1. "Quinientos setenta y dos" corresponde a la escritura con palabras de:

- **A** 572
- **B** 562
- **C** 502

2. ¿Qué número sigue en este conteo de 100 en 100?

372 , 472 , 572 , 672 , ☐

- **A** 772
- **B** 773
- **C** 872

15.

16. SIGUE LAS INSTRUCCIONES Y TRABAJA.

a. De **mayor** a **menor**.

274 385 710 583 409 205 647

_____ , _____ , _____ , _____ , _____ , _____ , _____

b. De **menor** a **mayor**.

326 623 632 236 362 263 323

_____ , _____ , _____ , _____ , _____ , _____ , _____

Escribe la cantidad de dinero en cada caso y luego completa la frase.

a.

$ 

$

$ es **menor que** $

b.

$

$ 

$ es **mayor que** $

c.

$ 

$ 

$ es **menor que** $

17. REVISA LO APRENDIDO.

1 Elena cuenta hacia adelante de 10 en 10 comenzando en 720. ¿Cuál de estos números nombrará Elena al contar?

(A) 710.

(B) 721.

(C) 780.

(D) 795.

2 ¿Cómo se escribe el número "seiscientos tres"?

(A) 63.

(B) 603.

(C) 630.

(D) 6.003.

3 ¿Qué opción muestra los números 867, 786, y 876 ordenados de **menor a mayor**?

(A) 786 - 876 - 867.

(B) 876 - 867 - 786.

(C) 786 - 867 - 876.

(D) 867 - 786 - 876.

4 El número 539 se puede representar como:

(A) 5+ 3 + 9

(B) 500 + 3 + 9

(C) 50 + 30 + 90

(D) 500 + 30 + 9